

Skats no augšas

Kas tas ir no augšas? · KidsEdu.lv

Vārds: _____

Kreisajā pusē – kā stārķis redz lietas **no augšas**. Labajā – tās pašas lietas no sāniem. Savieno ar līniju!

	No augšas		No sāniem	
1		●	● 	A
2	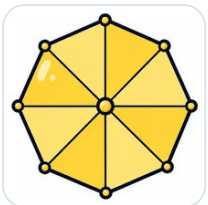	●	● 	B
3		●	● 	C
4		●	● 	D
5		●	● 	E
6		●	● 	F
7		●	● 	G



Skats no augšas

Kluču torņi – uzraksti plānu · KidsEdu.lv

Vārds: _____

Saskaiti, cik kluču ir katrā stabiņā, un ieraksti skaitli plāna rūtiņā. Tukšai vietai rūtiņu atstāj tukšu.

Zilā un oranžā mala ir abos attēlos tajā pašā vietā – pēc tām var orientēties.

1

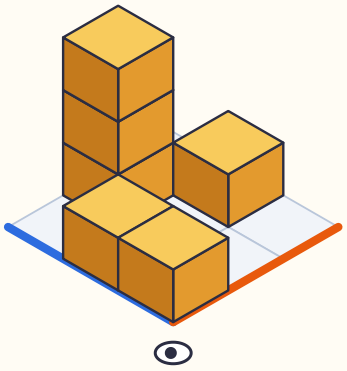

→



2

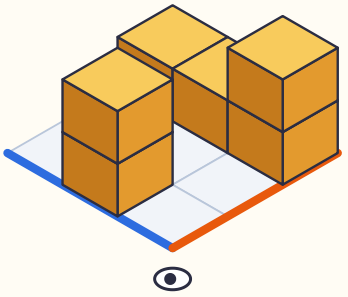

→



3

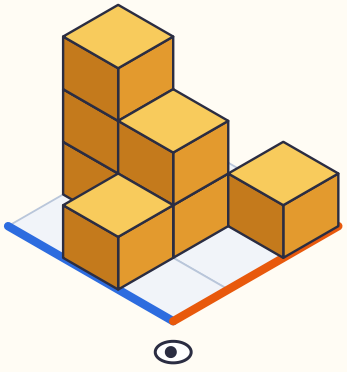

→



4

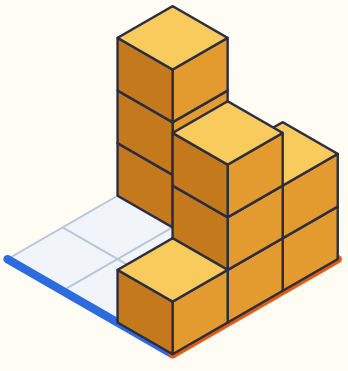

→



Skats no augšas

Kurš tornis der plānam? · KidsEdu.lv

Vārds: _____

Stārķis uzzīmēja plānu no augšas. Kurš tornis ir uzbūvēts tieši pēc tā? Apvelc burtu!

1

	1	2
1		
	1	

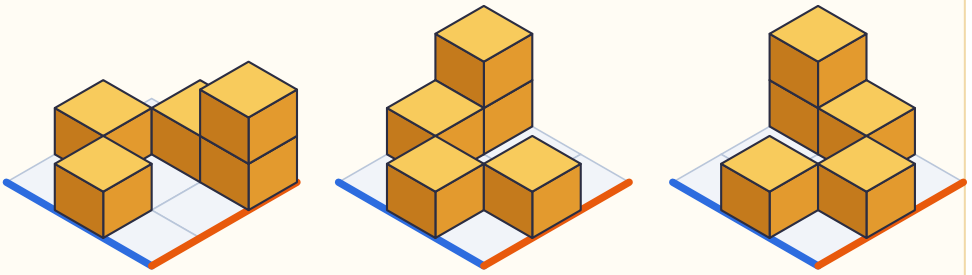

A B C

2

	3	3
		2
	2	

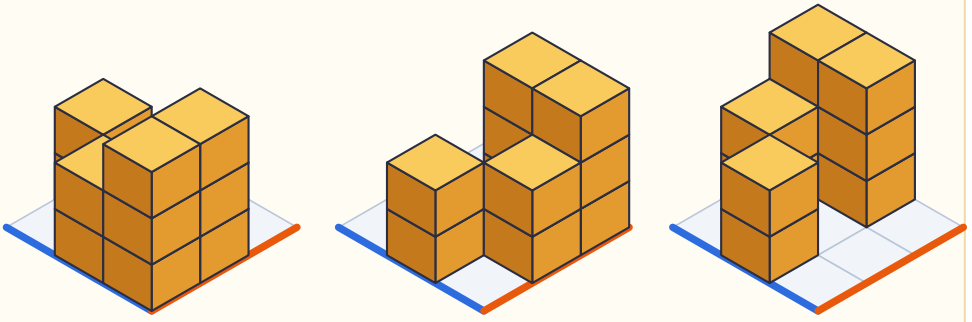

A B C

3

2	2	
2		1
2		1

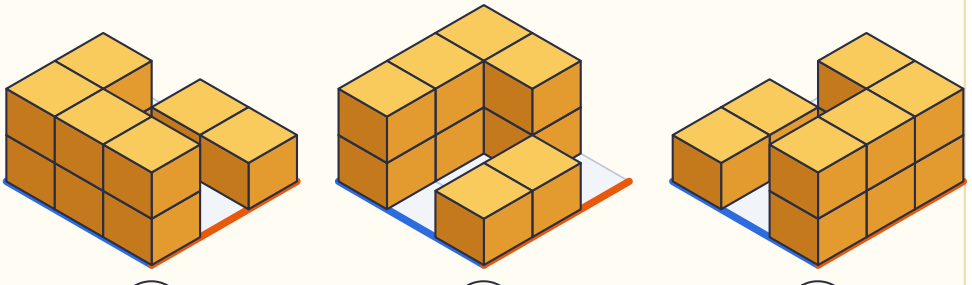

A B C

Padoms: atrodi augstāko stabiņu plānā un paskaties, pie kuras malas – zilās vai oranžās – tas stāv.



Skats no augšas

Pa kreisi vai pa labi? · KidsEdu.lv

Vārds: _____

Stārķis Pēteris iet pa parku. „Pa kreisi" un „pa labi" – no **stārķa** skatpunkta! Pirkstu vai zīmuli vadi pa ceļu.

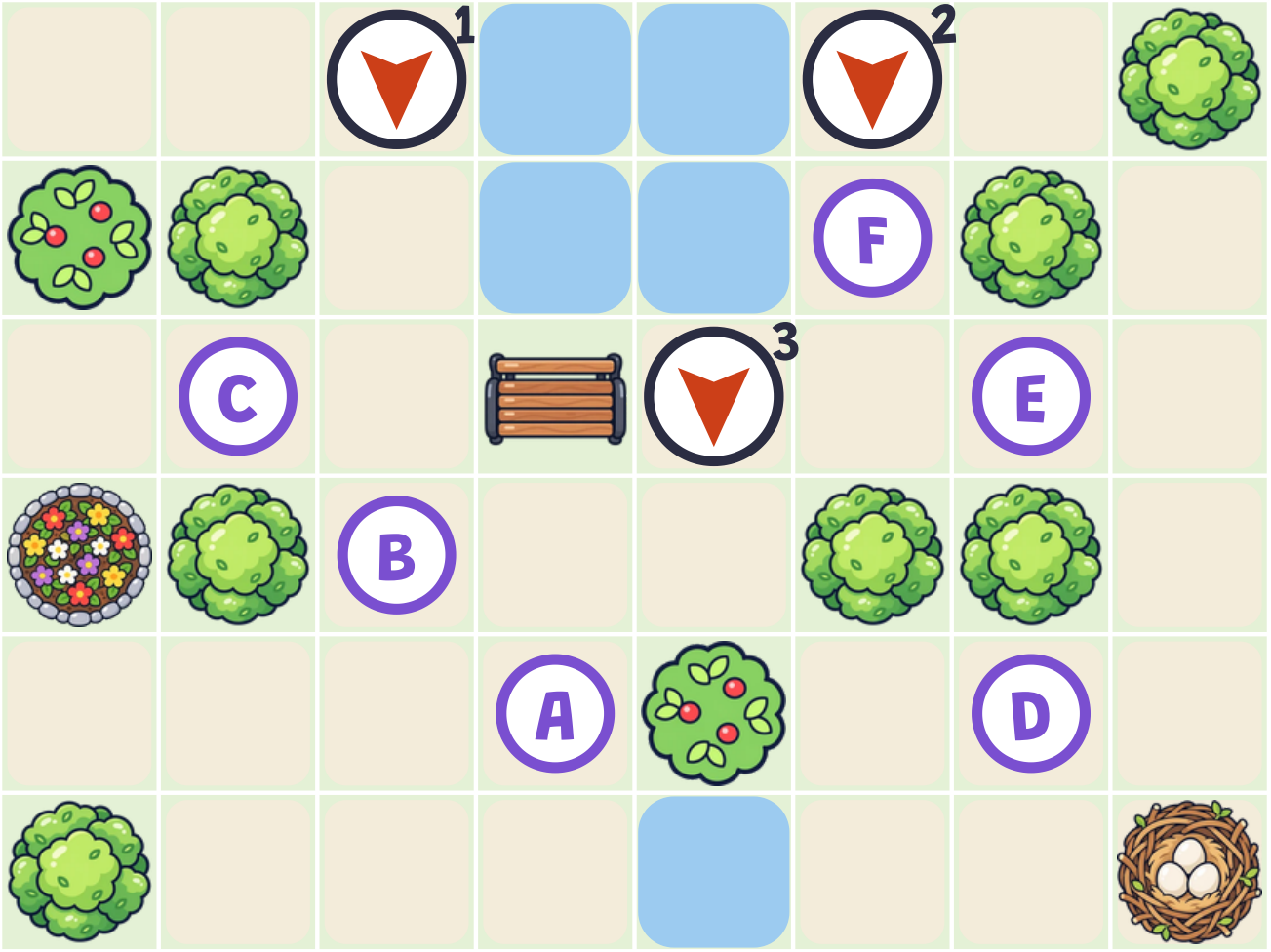

1 Stārķis stāv pie skaitļa **1** un skatās bultiņas virzienā. Viņš:

1. ej 2 soļus uz priekšu
2. pagriezies pa labi
3. ej 1 soli uz priekšu

Pie kura burta viņš nonāca? ☐

2 Stārķis stāv pie skaitļa **2** un skatās bultiņas virzienā. Viņš:

1. ej 2 soļus uz priekšu
2. pagriezies pa kreisi
3. ej 1 soli uz priekšu

Pie kura burta viņš nonāca? ☐

3 Stārķis stāv pie skaitļa **3** un skatās bultiņas virzienā. Viņš:

1. ej 1 soli uz priekšu
2. pagriezies pa labi
3. ej 2 soļus uz priekšu

Pie kura burta viņš nonāca? ☐

Ja stārķis iet uz leju (pretī tev), viņa kreisā puse ir tavā labajā pusē. Pagriez lapu, ja tas palīdz!



Skats no augšas

Mana istaba no augšas · KidsEdu.lv

Vārds: _____

Uzzīmē savu istabu no augšas – tā, kā to redzētu stārķis caur griestiem!

Ko zīmēt:

- gultu – taisnstūris ar spilvenu
- galdu un krēslu (atceries – kājas no augšas neredz!)
- skapi, durvis un logu
- paklāju un savu mīļāko mantu

Uzdevums ģimenei:

Paslēp istabā mazu mantiņu un atzīmē to plānā ar ✕. Vai kāds atradīs to pēc tava plāna?



Skats no augšas

Atbildes · KidsEdu.lv

Vārds: _____

Kas tas ir no augšas?

1 – F (krūze)
2 – D (lietussargs)
3 – G (krēsls)
4 – E (velosipēds)
5 – C (egle)
6 – B (sniegavīrs)
7 – A (tējkanna)

Kurš tornis der plānam?

1 – A, 2 – B, 3 – B

Pa kreisi vai pa labi?

1 – C, 2 – E, 3 – B

Kluču torņi – plāni

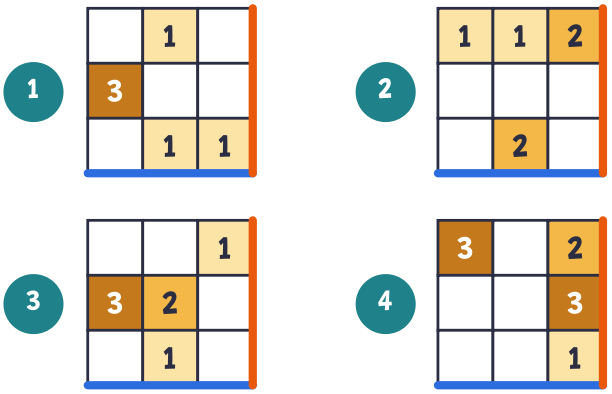

Spēle tiešsaistē: kidsedu.lv/speles/skats-no-augsas – atpazīsti lietas no augšas, būvē torņus pēc plāna un vadi stārķi uz ligzdu.