Skaitļu piramīdas



Bebrs Bruno būvē piramīdas no skaitļu ķieģeļiem. Noteikums ir tikai viens:

Katrs ķieģelis ir abu zem tā esošo ķieģeļu summa.

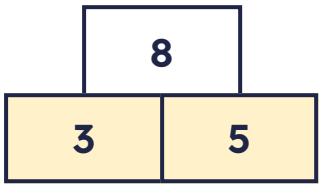

3 + 5 = 8
Apakšējos saskaitām – iegūstam augšējo.

Ja trūkst apakšējā – atņem!

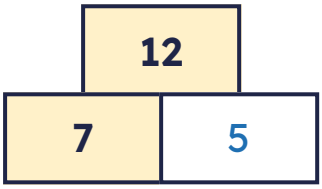

Augšā 12, viens apakšējais 7.
Otrs ir 12 – 7 = 5.

Visa piramīda

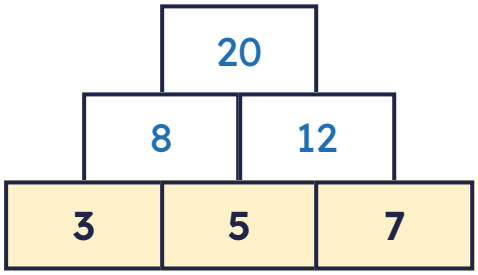

3 + 5 = 8
5 + 7 = 12
8 + 12 = 20

Padomi

- Sāc ar ķieģeli, kuram jau zināmi divi kaimiņi – zem tā abi vai virs tā un blakus.
- Dzeltenie ķieģeļi ir doti, tukšos aizpildi tu. Katrai piramīdai ir tieši viena pareiza atbilde.
- Pārbaudi: saskaiti divus blakus esošos ķieģeļus – vai iznāk tas, kas ir virs tiem?

Šajā komplektā: 2. lapa – viegli (līdz 20), 3. lapa – vidēji (līdz 100, jāatņem), 4. lapa – grūti (doti tikai 4 ķieģeļi), 5. lapa – uzbūvē savu piramīdu, beigās atbildes.

Spēlē tiešsaistē!
Bebra skaitļu piramīdas – 6 līmeņi ar padomiem.

Vajag vairāk lapu?
Loģikas lapu ģenerators – katram skolēnam citas piramīdas, atbildes klāt.

Skaitļu piramīdas – viegli



Vārds: _____ Datums: _____

Katrs ķieģelis ir abu zem tā esošo ķieģeļu summa. Ja zini augšējo un vienu apakšējo – atņem!

1. Skaitļu piramīda

Viegli

6	2	4

2. Skaitļu piramīda

Viegli

4	6	3

3. Skaitļu piramīda

Viegli

2	4	2

4. Skaitļu piramīda

Viegli

5	3	1

5. Skaitļu piramīda

Viegli

5	2	5

6. Skaitļu piramīda

Viegli

3	3	9

Kā man veicās? Apvelc!

☺ 😐 ☹

Spēlē arī tiešsaistē!
Bebra skaitļu piramīdas
Noskenē kodu ar telefonu

Izveidots ar KidsEdu.lv ģeneratoru „Loģikas lapas”

Skaitļu piramīdas – vidēji



Vārds: _____ Datums: _____

Katrs ķieģelis ir abu zem tā esošo ķieģeļu summa. Ja zini augšējo un vienu apakšējo – atņem!

1. Skaitļu piramīda

Vidēji

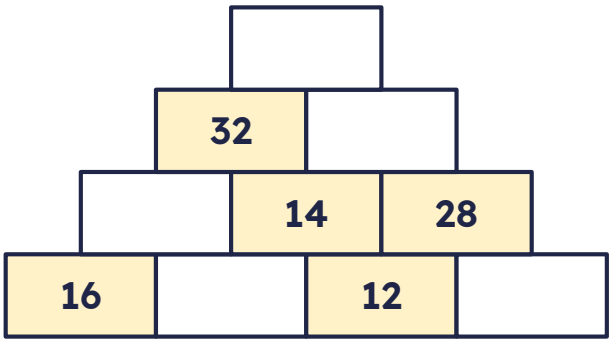

2. Skaitļu piramīda

Vidēji

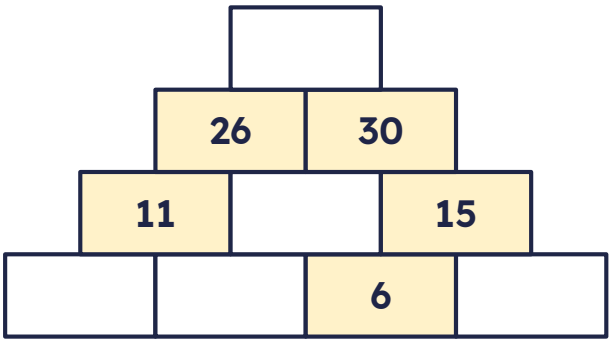

3. Skaitļu piramīda

Vidēji

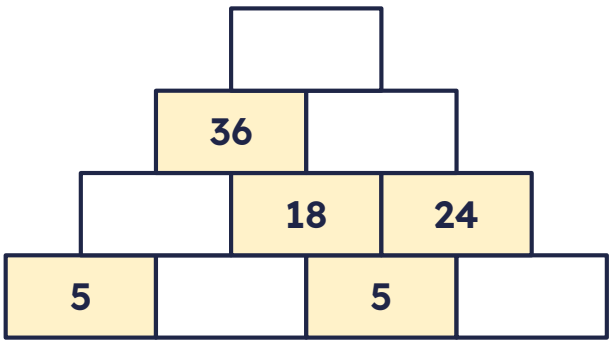

4. Skaitļu piramīda

Vidēji

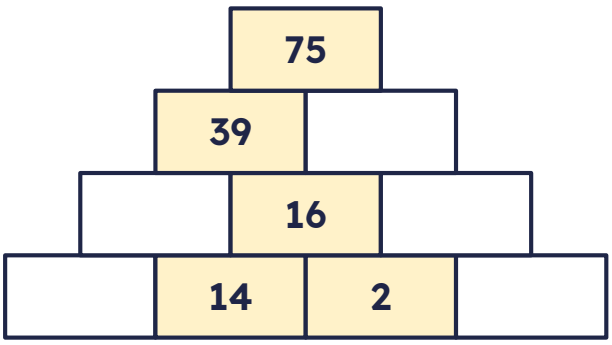

5. Skaitļu piramīda

Vidēji

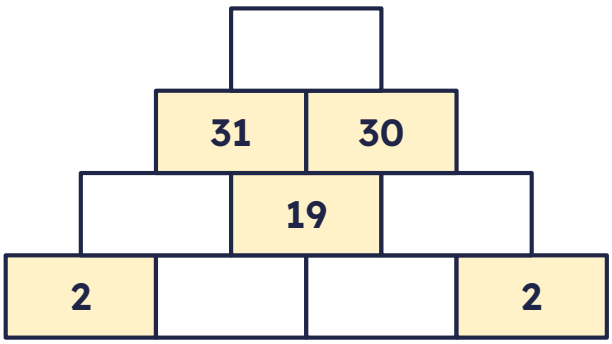

6. Skaitļu piramīda

Vidēji

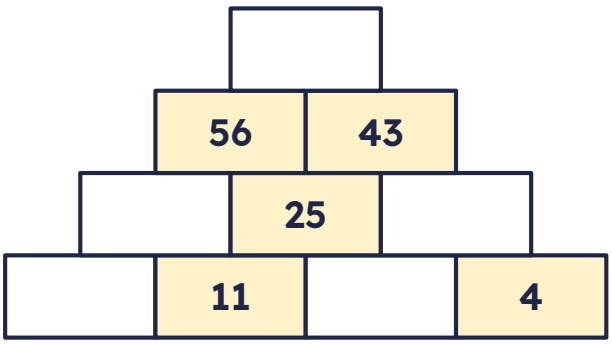

Kā man veicās? Apvelc!



Spēlē arī tiešsaistē!
Bebra skaitļu piramīdas
Noskenē kodu ar telefonu

Izveidots ar KidsEdu.lv ģeneratoru „Loģikas lapas”

Skaitļu piramīdas – grūti



Vārds: _____ Datums: _____

Katrs ķieģelis ir abu zem tā esošo ķieģeļu summa. Ja zini augšējo un vienu apakšējo – atņem!

1. Skaitļu piramīda

Grūti

		75		
	46			
		22		
	18			

2. Skaitļu piramīda

Grūti

		88		
16		20		
				20

3. Skaitļu piramīda

Grūti

		85		
	23		30	
	6			

4. Skaitļu piramīda

Grūti

	30		38	
13				
		12		

5. Skaitļu piramīda

Grūti

	33		22	
25				
				11

6. Skaitļu piramīda

Grūti

	34		52	
		25		
			19	

Kā man veicās? Apvelc!

☺ 😐 ☹

Spēlē arī tiešsaistē!
Bebra skaitļu piramīdas
Noskenē kodu ar telefonu

Izveidots ar KidsEdu.lv ģeneratoru „Loģikas lapas”

Uzbūvē savu piramīdu!



Vārds: _____ Datums: _____

Ieraksti pamatā savus skaitļus un aizpildi piramīdu līdz virsotnei. Pēc tam izdomā mīklu draugam: nodzēs dažus ķieģeļus un atstāj tikai tik, lai piramīdu vēl var atrisināt!

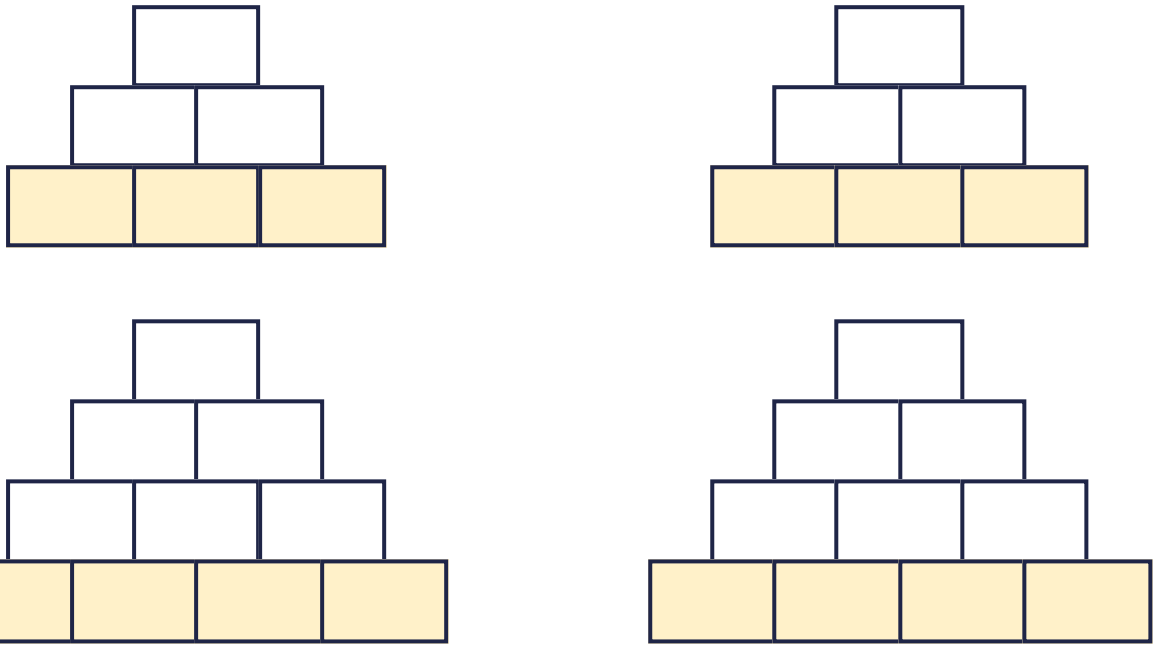

Mīkla draugam

Ieraksti tikai 3 skaitļus tā, lai draugs varētu atrast visus pārējos. Padoms: vismaz vienam no tiem jābūt apakšējā rindā!

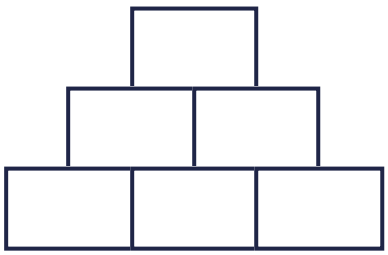

Atbildes

Atvērt ģeneratorā

2. lapa · Viegli – līdz 20

1.

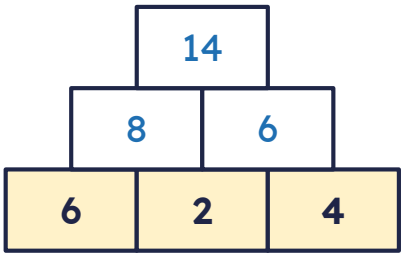

2.

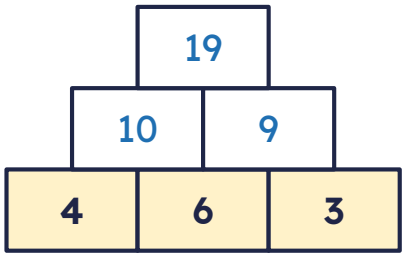

3.

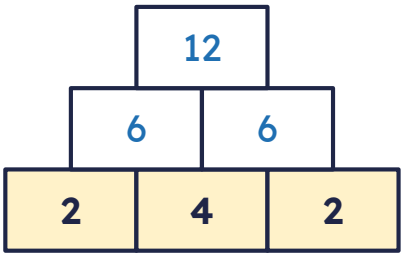

4.

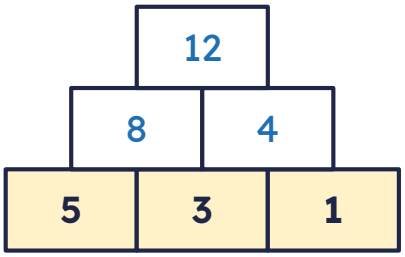

5.

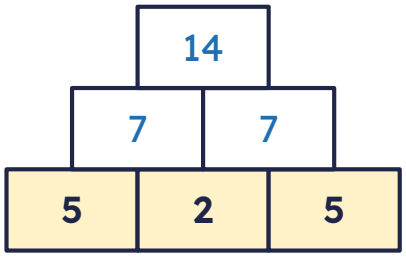

6.

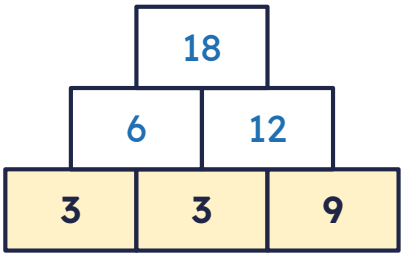

3. lapa · Vidēji – līdz 100

1.

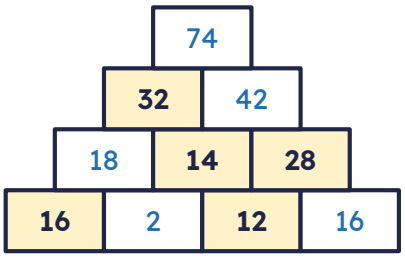

2.

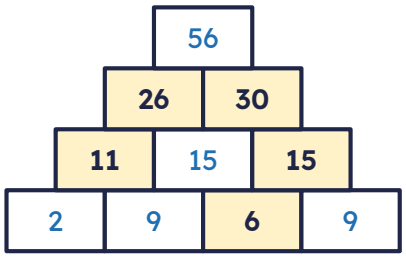

3.

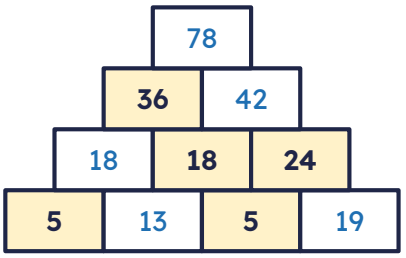

4.

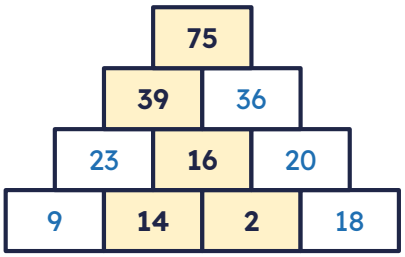

5.

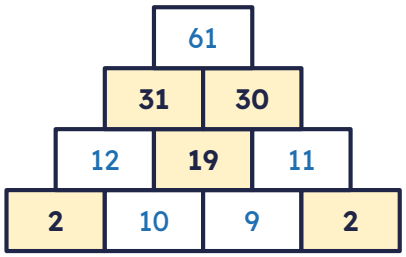

6.

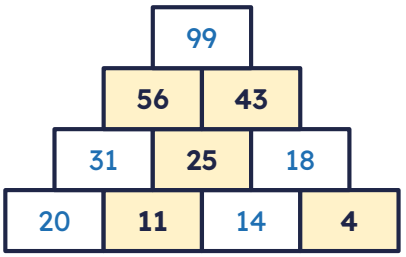

Izveidots ar KidsEdu.lv ģeneratoru „Loģikas lapas”

Atbildes (turpinājums)

4. lapa · Grūti – tikai 4 ķieģeļi

1.

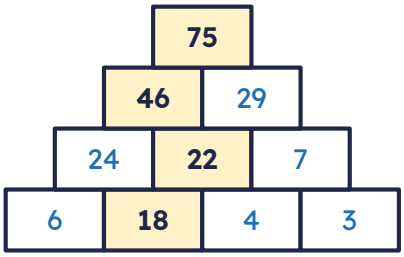

2.

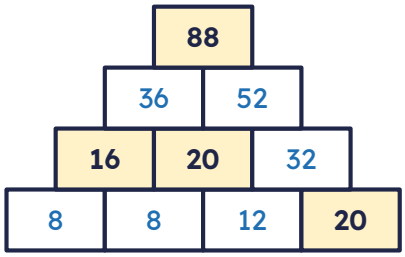

3.

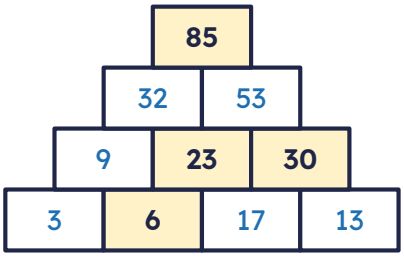

4.

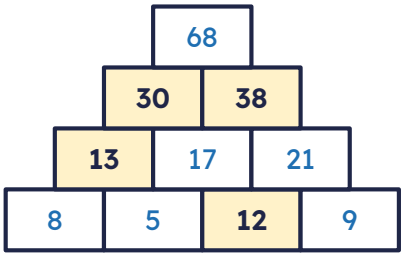

5.

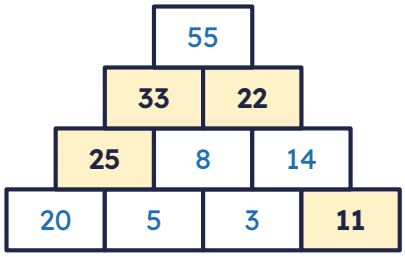

6.

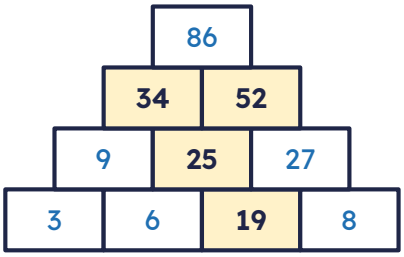

Izveidots ar KidsEdu.lv ģeneratoru „Loģikas lapas”